GENERALITAT VALENCIANA
CONSELLERIA D'EDUCACIÓ, CULTURA I ESPORT

PRUEBA PARA LA OBTENCIÓN DEL TÍTULO DE GRADUADO EN EDUCACIÓN SECUNDARIA OBLIGATORIA

1er APELLIDO _____

2º APELLIDO _____

NOMBRE _____ **HOMBRE** ☐ **MUJER** ☐

EDAD _____ **FECHA DE NACIMIENTO** _____

LOCALIDAD _____ **PROVINCIA** _____

LUGAR DE EXAMEN _____

FECHA _____

SEGUNDA PARTE **OCTUBRE 2014**

Observación: Esta parte de la prueba se presenta en castellano y en valenciano. Debes elegir solamente una de las opciones.

CIENCIAS SOCIALES:

- Módulo: El mundo del trabajo

- Módulo: Sociedades, territorio y procesos histórico-culturales

EL MUNDO DEL TRABAJO

A) PRUEBA OBJETIVA. Rodea con un círculo la respuesta correcta. *(Punt.: 1 punto).*

1.- Población activa es:

a) La que tiene un empleo.

b) Las personas que trabajan y tienen contrato laboral.

c) Las personas que trabajan y las que están en disposición de hacerlo.

d) Las personas que trabajan y las amas de casa.

2.- Se incluyen en el ámbito regulado por el Estatuto de los Trabajadores:

a) Las personas que tienen contrato mercantil.

b) Los trabajos por cuenta propia.

c) Los trabajos familiares sin condición de asalariados.

d) Las personas que tienen un contrato laboral.

3.- Cuando un aspecto de las relaciones laborales está regulado por distintas fuentes, se aplicará:

a) La voluntad del empresario.

b) Lo que regule el contrato.

c) La fuente más favorable al trabajador.

d) Lo que señale la fuente de más importancia jurídica aunque no beneficie al trabajador.

4.- El *currículum vitae* es:

a) Un resumen ordenado de la historia personal.

b) Un resumen escrito y ordenado de la trayectoria académica y laboral del candidato.

c) Un resumen de la historia profesional que debe ser válido para enfrentarse al mundo laboral.

d) Una relación de títulos, honores y cargos.

5.- El finiquito es**:**

a) La cantidad que se recibe en compensación por la decisión de los empresarios.

b) El abono de las cantidades a las que se tiene derecho por servicios prestados.

c) El reconocimiento de la extinción de la relación laboral.

d) La unión de la liquidación y de la indemnización.

B) CUESTIONES:

1.- ¿Cuáles son las características de un trabajo para que se le pueda aplicar el Estatuto de los Trabajadores? ¿Por qué quedan excluidos algunos trabajos? *(Puntuación: 1,5 puntos)*

2.- Clasifica las siguientes profesiones en el sector de producción correspondiente: carpintero, administrativa, apicultora, minera, cirujano, torero, ganadera, pescador, agente comercial, metalúrgico, camarero, policía. *(Puntuación: 1,5 puntos)*

Sector primario:_____

_____

Sector secundario: _____

_____

Sector terciario:_____

_____

3.- ¿Qué quiere decir que nuestro sistema fiscal es progresivo? Explica la diferencia entre los impuestos directos y los indirectos. Cita algún ejemplo de cada uno de ellos. *(Puntuación: 1,5 puntos)*

4.- El texto refundido de la ley del Estatuto de los Trabajadores marca, en el artículo 38, que las vacaciones anuales serán de 30 días. El convenio colectivo de *Artes Gráficas, Caucho y Cartón* marca unas vacaciones anuales de 35 días. Una trabajadora firma un contrato de encargada de producción en el que aparece un período vacacional anual de 30 días en verano, 5 en Navidad y 5 en Pascua. *(Puntuación: 1,5 puntos)*

a) ¿Es válido este contrato? Razona tu respuesta.

b) ¿De cuántos días de vacaciones disfrutará esta trabajadora? Justifica el principio normativo que has aplicado.

5.- ¿Qué es el SERVEF? Enumera sus principales funciones. *(Punt.: 1,5 puntos)*

6.- Paula tiene 24 años y está cursando en una escuela de adultos el primer nivel del Ciclo II de la Formación Básica de Personas Adultas, pero ha pensado que le gustaría trabajar en hostelería y desea prepararse para obtener algún título que la cualifique en este sector. *(Puntuación: 1,5 puntos).*

¿Qué itinerario formativo debería seguir Paula para conseguir una titulación que recoja sus intereses laborales? ¿Cómo podría obtener esta información?

PUNTUACIÓN: EL MUNDO DEL TRABAJO

SOCIEDADES, TERRITORIO Y PROCESOS HISTÓRICO-CULTURALES

1.- Sitúa en el mapa los siguientes toponímicos: *(Puntuación: 1,5 puntos)*

Sistema Central, Cordillera Cantábrica, Depresión del Ebro, Submeseta Norte, Pirineos, río Duero, río Guadiana, Islas Baleares, Estrecho de Gibraltar, Mar Cantábrico.

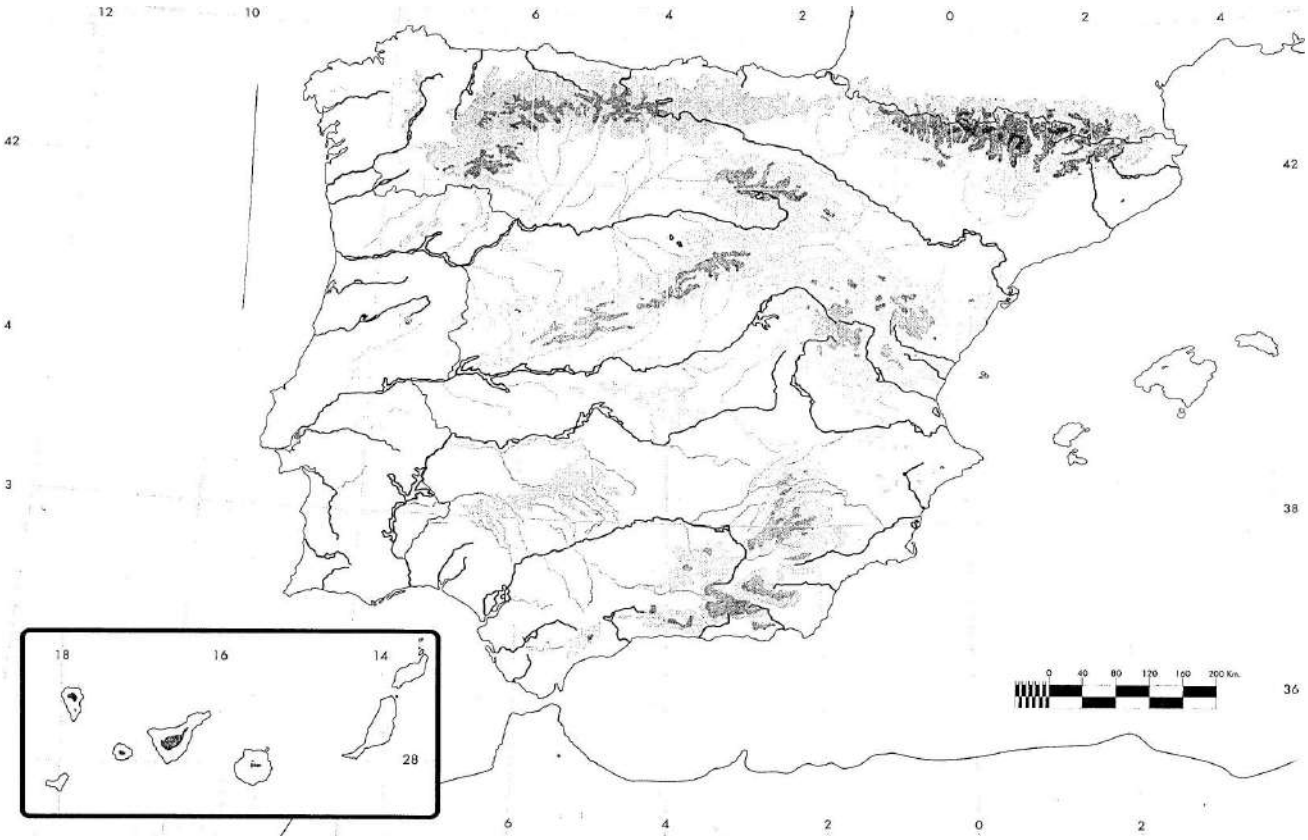

2.- Define los siguientes términos: *(Puntuación: 2 puntos)*

a) Globalización:

b) Sector secundario:

c) Sector terciario:

d) Tercer Mundo:

e) *Mass Media*:

3.- A partir de los datos de temperatura y de precipitaciones de este climograma, deduce si esta gráfica pertenece a Bilbao, Palma de Mallorca o a Tenerife. Indica, asimismo, el tipo de clima. *(Puntuación: 1,5 puntos)*

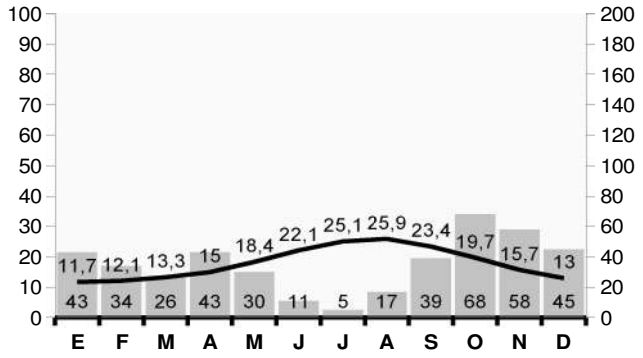

4.- Observa las gráficas y el mapa y responde a las siguientes cuestiones. *(Punuación: 3 puntos)*

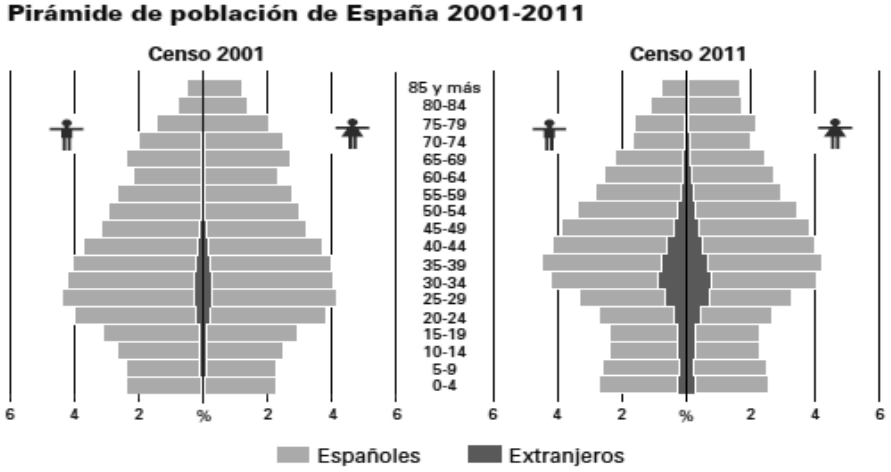

a) Explica las características demográficas de la población inmigrante en España, según las pirámides de población anteriores.

b) Describe las causas internas y externas que han provocado esta evolución.

c) Con ayuda del mapa del Censo 2011, indica dónde se produce una mayor y una menor concentración de inmigrantes en España. Aporta razones que justifiquen esa distribución.

5.- Explica qué ha significado para España su incorporación a la actual Unión Europea desde el punto de vista político, económico (agricultura, pesca, industria, comercio, transportes, turismo, asuntos laborales), social y educativo-cultural. *(Punt.: 2 puntos)*

PUNTUACIÓN: SOCIEDADES, TERRITORIO Y PROCESOS HISTÓRICO-CULTURALES